MEKTEPKE SHEKEMGI HÁM MEKTEP BILIMLENDIRIW MINISTIRLIGI

PEDAGOGIKALÍQ SHEBERLIK HÁM XA BAHALAW ILIMIY-ÁM OARAY

RESPUBLIKA BILIMLENDIRIW ORAYI

ÓZBEKSTAN RESPUBLIKASÍ
MEKTEPKE SHEKEM HÁM MEKTEP BILIMLENDIRIW MINISTRLIGI
PEDAGOGIKALÍQ SHEBERLIK HÁM XALÍQARA BAHALAW
ILIMIY-ÁMELIY ORAYÍ

2023
2024

OQÍW JÍLÍNDA
ULÍWMALÍQ BILIMLENDIRIW
MEKTEPLERINIŃ 11-KLASS
OQÍWSHÍLARÍ USHÍN

ÓZBEKSTAN TARIYXÍ

PÁNINEN JUWMAQLAWSHÍ ATTESTACIYASÍN ÓTKERIW BOYÍNSHA METODIKALÍQ USÍNÍS HÁM MATERIALLAR

2023-2024- OQÍW JÍLÍNDA ULÍWMALÍQ BILIMLENDIRIW MEKTEPLERINIŃ 11-KLASS OQIWSHILARI USHIN JUWMAQLAWSHI QADAĠALAW IMTIXANIŃ ÓTKERIW BOYINSHA ÓZBEKSTAN TARIYXI PÁNINEN SPECIFIKACIYASÍ.

Dúziwshiler: "Ózbekstan Respublikası Mektepke shekemgi hám mektep bilimlendiriw ministrligi quramındaǵı qánigelestirilgen bilimlendiriw mákemeleri agentligine qaraslı Muxammed Al-Xorezmiy atındaǵı qánigelestirilgen mektep" Tariyx páni oqıtıwshısı **Abdujalilova Nigora Abdusattarovna**
Pikir bildiriwshiler:

11- klasstı tamamlaǵan oqıwshılar Ózbekstan tariyxı páninen bilimlendiriw dástúri boyınsha belgili dárejedegi kompetenciyalarǵa iye boladı.

Oqıwshılardıń alǵan bilim, kónlikpe hám ilimiy tájriybelerin anıqlaw ushın 2023-2024- oqıw jılında 11-klasslarda juwmaqlawshı imtixan jazba hám awızeki formada ótkeriledi.

Hár bir imtixan biletiniń soraw hám tapsırmaları Ózbekstan tariyxı páni boyınsha ulıwma bilim beriw mekteplerniń 10-11-klassları temaların qamtıp alınǵan. Sonıń menen birge, usınısta biliwge tiyisli sorawlar, qóllawǵa hám pikirlewge tiyisli tapsırmalar boyınsha bahalaw kriteryaları keltirilgen.

Hár bir oqıwshı bir biletti tańlap aladı. Bilette oqıwshıǵa 5 soraw beriledi. Eki soraw biliwge, 2 soraw qóllawǵa, 1 soraw pikirlewge tiyisli boladı. Pikirlewge tiyisli sorawǵa juwap awızeki tapsırıladı. Oqıwshı bilet sorawlarına juwap beriwi ushın 120 minuta waqıt beriledi.

Oqıwshılardıń jazba hám awızeki jumısları 100 ballı sistema tiykarında:

0 - 29% - "qanıqarsız";
30 -65% - "qanaatlanǵan";
66 -85% - "jaqsı";
86 -100% - "joqarı"

bahalar menen bahalanadı. Hár bir tapsırma ushın belgilengen balldan joqarı ball qoyılıwına jol qoyılmaydı.

Berilgen tapsırmalardan juwmaqlawshı mámleket attestaciyası ótkeriliwi belgilengen kúnnen bir kún aldın, Isshi topar tárepinen chek taslaw jolı menen 2 variant dúzilip, daǵaza etiledi.

Ózbekstan tariyxı	Sanı	Biliw	Qollaw	Pikirlew
XIX ásirdiń ekinshi yarımı hám XX ásirdiń 90-jıllarına shekem		**1**	**1**	
Ǵárezsizlik dáwiri		**1**	**1**	**1**
Jámi	**5**	**2**	**2**	**1**

TAPSÍRMALAR BOYINSHA BAHALAW KRITERIYASÍ

№	Bólim atı		Tapsırma túri	Tapsırma forması	Bahalaw kriteriyası
XIX ásirdiń ekinshi yarımı hám XX ásirdiń 90-jıllarına shekem					
1.	Rossiya imperiyası basqınshılıǵı qarsanında Buxara ámirligi, Qoqan hám Xiywa xanlıqlarındaǵı sociallıq –siyasiy hám ekonomikalıq jaǵday. Rossiya imperiyasınıń Orta Aziyaǵa júrisi, Túrkstan general-gubernatorlıǵınıń dúziliwi hám Buxara ámirligi hám Xiywa xanlıǵınıń Rossiya imperiyası vassalına aylanıwı. Túrkstanda Rossiya imperiyasına qarsı milliy-azatlıq háreketleri. Túrkstanda jadidshilik háreketiniń júzege keliwi hám jadidshilik háreketi wákilleriniń xızmeti. XIX ásirdiń ekinshi yarımı hám XX ásirdiń 90-jıllarına shekem Qaraqalpaqlar.	B	Qısqa juwaplı	J: ________	Sorawdıń juwabı jazılatuǵın bolıp, durıs juwap ushın **18 ball** menen bahalanadı. Qáte juwap ushın **0 ball** beriledi.
2.	Buxara ámirligi hám Xiywa xanlıqlarınıń saplastırılıwı. Túrkstan Avtonomiyası. Túrkstan ASSR, BXSR hám XXSRda sovet hákimiyatına qarsı qurallı háreketler. Orta Aziyada aymaqlıq shegaralaw hám Ózbekstan SSR	Q		Kartada belgilengen	Kartada belgilengen aymaqtı anıqlap berilgen tapsırma orınlansa – **21 ball** Aymaq

	nıń dúziliwi. Sovet hákimiyatınıń Ózbekstandaǵı repressiya siyasatı. Ózbekstan Ekinshi jáhán urısı jıllarında. 1980–1990-jıllarda Ózbekstan. Ózbekstanda sociallıq-siyasiy belsendilik hám ǵárezsizlikke umtılıwdıń kúsheyiwi.		Karta	aymaq	anıqlansa biraq tapsırma orınlanbasa – **10 ball.** Qáte juwap ushın **0 ball** beriledi.
Ǵárezsizlik dáwiri					
3.	Ǵárezsizliktiń júriyalanıwı hám Ózbekstanda sociallıq-siyasiy reformalardıń baslanıwı. Ózbekstanda puqaralıq jámiyetiniń qáliplesiwi hám rawajlanıwı. Ózbekstanda ekonomikalıq reformalar hám sociallıq siyasat.	B	Qısqa juwaplı	J: _________	Sorawdıń juwabı jazılatuǵın bolıp, durıs juwap ushın **18 ball** menen bahalanadı. Qáte juwap ushın 0 ball beriledi.
4.	Ózbekstanda etnikalıq hám konfessiyalar aralıq qatnasıqlar. Bilimlendiriw sisteması reformaları hám kadrlar tayarlaw. Ǵárezsizlik jıllarında ilim-pán hám sporttıń rawajlanıwı. Ǵárezsizlik jıllarında Ózbekstanda ruwxıy hám mádeniy rawajlanıw hám eki tárepleme qatnasıqlar.	Q	Kesteli test	Sáykeslikti anıqlaw	Keste kórinisindegi tapsırmada, hár bir sorawǵa onıń juwabın sáykeslendiriw kerek boladı. 3-4 soraw hám 3-4 ten kóp juwap variantları beriledi. Sáykesliktiń hámmesi durıs bolsa **21 ball** beriledi. 3 lik sorawlarda 1 durıs juwapqa **7 ball**, 4 lik sorawlarda 1 durıs juwap ushın **5,25 ball** bárshe qáte juwap ushın 0 ball beriledi.

5.	Ózbekstannıń sırtqı siyasatı hám eki tárepleme qatnasıqlar. Ózbekstan Respublikasınıń kóp tárepleme sheriklik qatnasıqlarınıń rawajlanıwı	P	Tariyxıy waqıyalıq haqqında erkin piker bildiriw	Awızeki	- Jıl hám sánelerdi bilse - **3 ball;** - Sorawdıń mánisin, ol menen baylanıslı mashqalalardı túsiniw hám processti búgingi kúnge baylanıstıra alsa – **5 ball;** - Karta menen isley alsa – **4 ball;** - temaǵa sın kózqarastan hám analiz baha bere alsa – **5 ball;** - Imtixan alıwshı tárepinen berilgen temaǵa baylanıslı qosımsha sorawlarǵa juwap bere alsa – **5 ball** **22 ball**

TAPSÍRMALAR BOYINSHA BAHALAW KRITERIYASÍ.

Tapsırmalar tómendegi bahalaw kriteriyaları boyınsha bahalanadı:

1) Biliwge tiyisli qısqa sorawlar berilgen bolıp, sorawǵa juwap jazılǵan bolsa – **18 ball** menen bahalanadı. Qáte juwap ushın **0 ball** beriledi.
2) Qollaw eki usılda berilgen
Birinshi usıl: karta tiykarında
Ekinshi usıl: kesteli test -sáykeslendiriw.
Kartada belgilengen aymaqtı anıqlap berilgen tapsırma orınlansa – **21 ball**.
Aymaq anıqlansa biraq tapsırma orınlanbasa – **10 ball**.
Qáte juwap ushın **0 ball** beriledi.
Keste kórinisindegi tapsırmada, hár bir sorawǵa onıń juwabın sáykeslendiriw kerek boladı. 3-4 soraw hám 3-4 ten kóp juwap variantları beriledi.
Sáykesliktiń hámmesi durıs bolsa **21 ball;**
3 lik sorawlarda 1 durıs juwapqa **7 ball**;
4 lik sorawlarda 1 durıs juwap ushın **5,25 ball;**
bárshe qáte juwap ushın **0 ball** beriledi.
3) Pikirlew oqıwshıdan berilgen sorawǵa erkin piker bildiriw soraladı – **22 ball**
- Jıl hám sánelerdi bilse - **3 ball;**
- Sorawdıń mánisin, ol menen baylanıslı mashqalalardı túsiniw hám processti búgingi kúnge baylanıstıra alsa – **5 ball;**
- Karta menen isley alsa – **4 ball;**
- Temaǵa sın kózqarastan hám analiz baha bere alsa – **5 ball;**
- Imtixan alıwshı tárepinen berilgen temaǵa baylanıslı qosımsha sorawlarǵa juwap bere alsa – **5 ball.**

2023-2024- OQÍW JÍLÍNDA ULÍWMALÍQ BILIMLENDIRIW MEKTEPLERINIŃ 11-KLASS OQIWSHILARI USHÍN ÓZBEKSTAN TARIYXÍ PÁNINEN JUWMAQLAWSHÍ IMTIXAN SORAWLARÍ.

1-soraw biliw (18 ball) 10-klass Ózbekstan tariyxı.

1. 1917-jılı házirgi Qaraqalpaqstan aymaǵı Ámiwdáryanıń oń jaǵalıǵı hám shep jaǵalıǵı bolıp ekige bólinip, olar qaysı mámleketler quramında bolǵan?
Juwap:____
____
____

2. Túrkstan general-gubernatorlıǵı quramına kiriwshi, qaraqalpaqlar jasaytuǵın Ámiwdárya bólimi orayı qaysı qala bolǵan?
Juwap:____
____

3. 1855 — 1856-jılları kimniń basshılıǵında qaraqalpaqlardıń Xiywa xanlıǵına qarsı qozǵalańı bolıp ótti?
Juwap:____
____

4. Tashkent qalasında 1917-jılı 14-martta dúzilgen «Shuro-i-Islamiya» («Islam Keńesi») tásirinde Petro-Aleksandrovskte jergilikli xalıq wákillerinen dúzilgen shólkem qanday atalǵan?
Juwap:____
____

5. XX ásir basında bolshevikler hákimiyatına qarsı gúres basshılarınıń biri U.Bawiddinov xalıq arasında qanday at penen tanılǵan?
Juwap: ____
____

6. 1925-jılı 12-19-fevral aralıǵında Qaraqalpaqstan Avtonomiyalı wálayatınıń birinshi shólkemlestiriw siezdi qaysı qalada bolıp ótken?
Juwap:____
____

7. 1932-jılı 25-29-mayda Tórtkúl qalasında bolıp ótken Qaraqalpaqstan ASSR sovetleriniń I shólkemlestiriw siezdinde QQASSR dúzilgeni haqqında úndew daǵazalanǵan. Usı siezde kim jańa Respublikanıń birinshi Oraylıq Atqarıw Komitetiniń baslıǵı lawazımına tayınlandı?
Juwap:____
____

8. 1932-jılı 25-29-mayda Tórtkúl qalasında bolıp ótken Qaraqalpaqstan ASSR sovetleriniń I shólkemlestiriw siezdinde QQASSR dúzilgeni haqqında úndew daǵazalanǵan. Usı siezde kim jańa Respublikanıń birinshi húkimeti – Xalıq Komissarlar Soveti baslıǵı lawazımına tayınlandı?
Juwap:____
____

9. 1956-1961-jıllarda Qaraqalpaqstan Avtonomiyalı Respublikasınıń qaysı qalasında GRES qurılısı ámelge asırılıp, iske túsirilgen?

Juwap:____

____

10. 1947-1956-jıllarda Charjow — Qońırat temir jol magistralı qurlısınıń ámelge asırılıwı Qaraqalpaqstan Avtonomiyalı Respublikasınıń qaalalarınıń sanaatlasıwında áhmiyetli rol oynadı?

Juwap:____

____

2-soraw QOLLAW (21 ball) Karta menen islew (10-klass Ózbekstan tariyxı).

1. Juldızsha menen belgilengen aymqtı anıqlap, 1917-jıl 27-noyabrde dúzilgen mámleket haqqında maǵlıwmat beriń. (Qollaw - 21 ball)

Juwap: ____

____

____

____

____

____

____

____

____

____

____

____

____

2. Juldızsha menen belgilengen aymqtı anıqlap, bul aymaqta 1918-1924-jıllarda júz bergen sovet hákimiyatına qarsı azatlıq háreketleri haqqında maǵlıwmat beriń. (Qollaw - 21 ball)

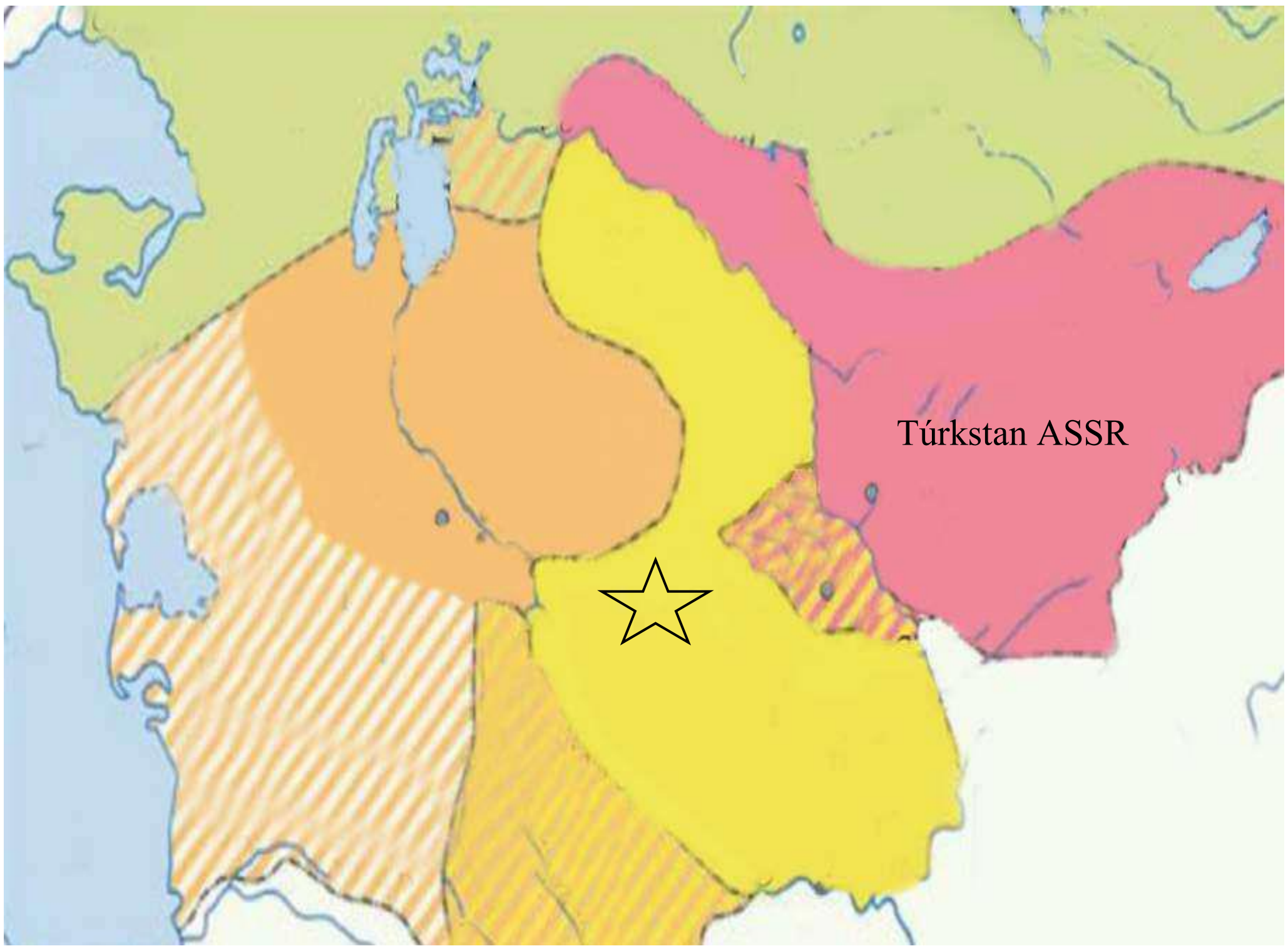

Juwap: ____
____
____
____
____
____
____
____
____
____
____
____
____

3. Karta tiykarında Orta Aziya aymaǵında 1924-jılda dúzilgen mámleketlerdi anıqlap kórsetiń hám milliy aymaqlıq shegaralaw haqqında maǵlıwmat beriń. (Qollaw - 21 ball)

Juwap: ____

____

____

____

____

____

____

____

____

____

____

____

____

4. Juldızsha menen belgilengen aymqtı anıqlap, bul aymaqta 1918-1924-jıllarda júz bergen sovet hákimiyatına qarsı azatlıq háreketleri haqqında maǵlıwmat beriń. (Qollaw - 21 ball)

Juwap: ____

____

____

____

____

____

____

____

____

____

____

____

____

5. 1924-1936-jıllarda Orta Aziya aymaǵındaǵı Túrkstan ASSR, Buxara hám Xorezm respublikaları ornında dúzilgen mámleketlerdiń aymaqların ajıratıp, olar haqqında maǵlıwmat beriń. (Qollaw - 21 ball)

Juwap: ____

____

____

____

____

____

____

____

____

____

____

____

____

6. Ózbekstan SSR dúzilgen waqıtta 1925-jıl fevral–aprel ayları dawamında (a) qalası, 1925-jıl aprelden 1930- jıl sentyabrge shekem (b) qalası hám bunnan soń (c) qalası Ózbekstan SSR paytaxtına aylanǵan. Háripler orınlarındaǵı qalalarlar kartada neshinshi sanlarda belgilengenligin anıqlań. (Qollaw - 21 ball)

Juwap: ____

____

____

____

____

____

____

____

____

____

____

____

____

7. Jer-suw reformasınıń ekinshi basqıshı ámelge asırılǵan aymaqlardı kartadaǵı sanlar tiykarında anıqlań hám Jer-suw reforması haqqında maǵlıwmat beriń. (Qollaw - 21 ball)

Juwap: ____

____

____

____

____

____

____

____

____

____

____

____

____

____

____

____

____

8. 1956- jılı (a) wáláyatında Gazli neft-gaz káni tabılǵan hám 1958-jıl 3-sentyabrde kán-metallurgiya kombinatına tırnaq qoyılıwı menen (b) qalasına tiykar salınǵan.
Háripler orınlarındaǵı hákimshilik-aymaqlıq birlikler (wálayat, qala) kartada neshinshi sanlarda belgilengenligin anıqlań. (Qollaw - 21 ball)

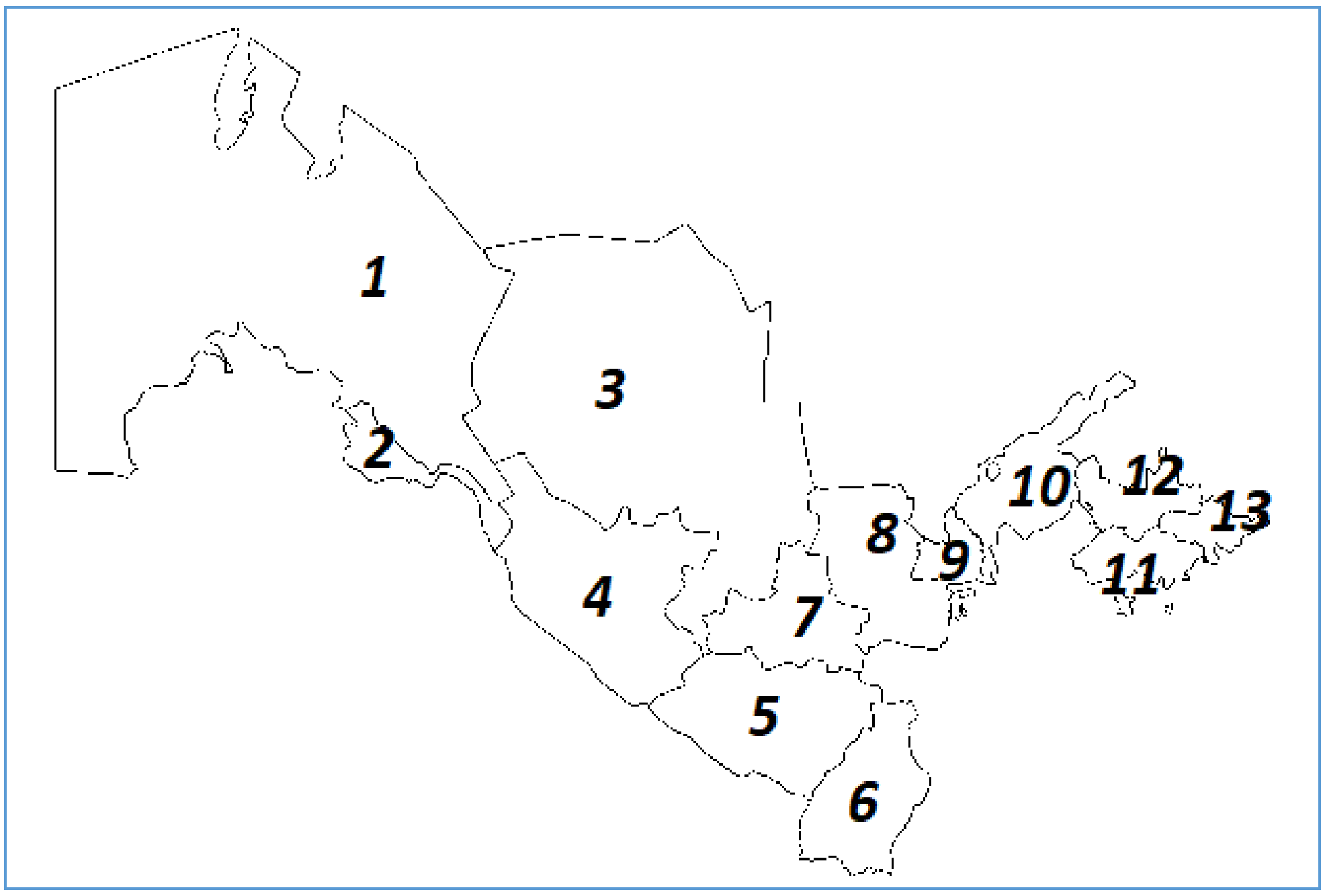

Juwap: ____

____

____

____

____

____

____

____

____

____

____

____

____

9. 1925-jıl 13–17-fevral kúnleri Buxarada bolıp ótken Pútkil ózbek Sovetleriniń I shólkemlestiriw qurıltayında «Ózbekstan Sovet Socialistlik Respublikasın dúziw haqqında Deklaraciya» qabıl etilgen. Oǵan kóre Ózbekstan SSR quramına qaysı wáláyatlar kirgen? Wáláyatlardı karta tiykarında anıqlań. (Qollaw - 21 ball)

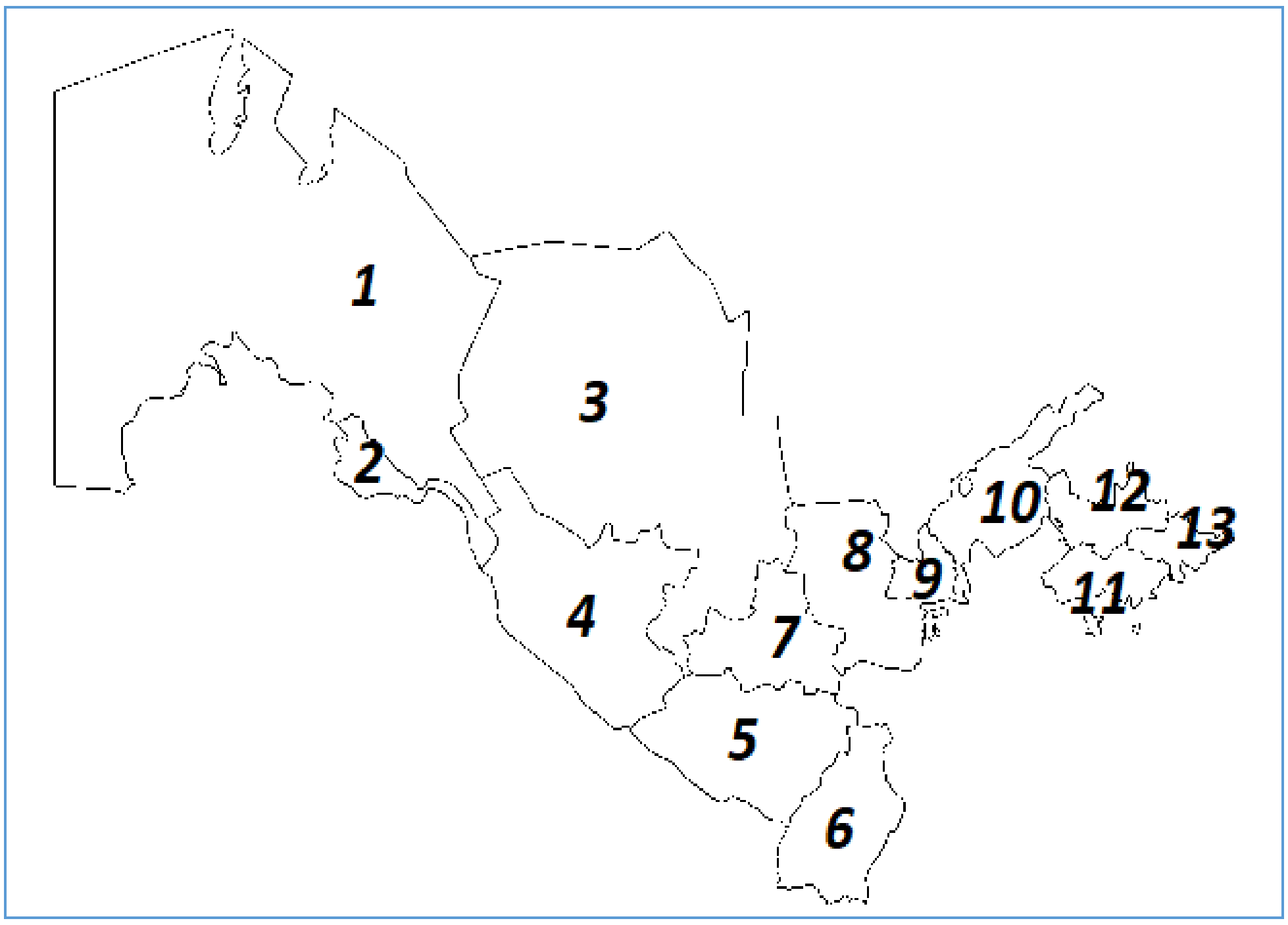

Juwap: ____

____

____

____

____

____

____

____

____

____

____

____

10. 1943-jıldan Ózbekstan ushın jańa egin – qant láblebi egiw ushın qaysı aymaqlardan ónimdar jerler ajıratılǵan? Aymaqlardı kartadaǵı sanlar tiykarında anıqlań. (Qollaw - 21 ball)

Juwap: ____

____

____

____

____

____

____

____

____

____

____

____

____

____

3-soraw biliw (18 ball) (11-klass Ózbekstan tariyxı).

1. 17 statyadan ibarat bolǵan qaysı nızam suveren Ózbekstan Respublikasınıń tiykarǵı belgilerin anıqlap bergen? (Biliw - 18 ball)
Juwap: ____

____

2. Ózbekstan Respublikasınıń Konstituciyasın jaratıw ústinde qansha múddet islengen hám joybardıń dáslebki variantı neshe bólim hám statyadan ibarat bolǵan? (Biliw - 18 ball)
Juwap: ____

____

3. 1991-jıl 29-dekabrde Ózbekstan Respublikası Prezidentligine alternativ tiykarında bolıp ótken saylawda kimler joqarı lawazımǵa óz kandidaturasın qoyǵan? (Biliw - 18 ball)
Juwap: ____

____

4. Ózbekstan Respublikası Oliy Majlisi 2005-jıldan baslap qanday palatalar tiykarında is alıp barmaqta? (Biliw - 18 ball)
Juwap: ____

____

5. Ózbekstan Respublikası Konstituciyasınıń úshinshi princioinde mámleket hákimiyatı úsh tarmaqqa bóliniwi nızamlastırılǵan. Bular qaysılar? (Biliw - 18 ball)
Juwap: ____

____

6. Qaysı partiyanıń tyikarǵı madseti jámiyettegi sociallıq mashqalalardı sheshiwge qaratılǵan? (Biliw - 18 ball)
Juwap: ____

____

7. Qashan hám ne ushın Angren–Pop temir jolı hám Qamshıq tunneli ashılǵan? (Biliw - 18 ball)
Juwap: ____

____

8. 1992-jıl avgustta Ózbekstan qaysı mámleket penen Andijan wáláyatınıń Asaka qalasında avtomobil islep shıǵaratuǵın qospa kárxana qurıw haqqında shártnama dúzgen. (Biliw - 18 ball)
Juwap: ____

____

9. Mámlekette suw kemtarlıǵı (jetispewshiligi) esapqa alınıp, 1998-jıldan baslap paxtashılıqta qanday texnologiyalar engizildi? (Biliw - 18 ball)
Juwap: ____

____

10. Qaysı wáláyatta xalıqaralıq intermodal logistika orayı shólkemlestirilgen? (Biliw - 18 ball)
Juwap: ____

____

4-soraw QOLLAW (21 ball) Kesteli test, sáykeslendiriw (11-klass Ózbekstan tariyxı)

1. Tómendegi milletlerdi olar bayramlaytuǵın bayramları menen sáykeslendiriń. (Qollaw - 21 ball).

1) Qıtay

2) Koreys

3) Uyǵır

a) «Soller»

b) «Sabantoy»

c) «Sayil»

d) «Chunuze»

e) «Ovol – tano»

f) «Maslennica»

1)	2)	3)

2. Tómendegi atamalardı túsindirmesi menen sáykeslendiriń. (Qollaw - 21 ball).

1) Baynalmilal

2) Konfessiya

3) Tolerantlıq

4) Bakalavr

a) Tayanısh joqarı bilimlendiriw kursınan soń qosımsha dástúr orınlaǵan, arnawlı imtixanlardı tapsırǵan hám belgili ilimiy isti qorǵaǵan shaxslarǵa beriledi.

b) Joqarı bilimlendiriw dástúriniń birinshi basqıshın tamamlaǵan studentlerdiń ilimiy dárejesi.

c) Jámiyet, millet, jámáát yaki ayrıqsha shaxstıń tariyxıy quramǵa iye oylaw dárejesi.

d) diniy isenimi, inanımı; sonıń menen birge mázheb mazmunına iye túsinik.

e) ózgelerdiń pikir-ideyaları, isenimi, sezimleri, turmıs tárizi hám minez-qulqına salıstırmalı sabır-taqatlı bolıw, biyparwa qarawı; keńpeyillik.

f) Xalıqaralıq, ulıwma insaniy, ulıwma xalıqlıq mazmunlarında qollanıladı

1)	2)	3)	4)

3. Jıllardı atamaları menen sáykeslendiriń. (Qollaw - 21 ball).

1) 2001 - jıl

2) 2010 - jıl

3) 2015 - jıl

4) 2023 - jıl

a) “Bárkamal áwlad jılı”

b) “Insanǵa itibar hám sapalı bilimlendiriw jılı”

c) “Ana hám bala jılı”

d) “Salamat ana hám bala jılı”

e) “Jaslar hám biznesti qollap-quwatlaw jılı”

f) “Kekselerdi qádirlew jılı”

g) “Jaslar jılı”

1)	2)	3)	4)

4. Kadrlar tayarlaw milliy dástúri 3 basqıshtaǵı reformalar tiykarında ámelge asırılǵan. Basqıshlar menen ámelge asırılǵan islerdi sáykeslendiriń. (Qollaw - 21 ball).

I basqısh

II basqısh

a) Mektep sabaqlıqları pútkilley jańalandı

b) Kadrlar tayarlasw milliy dástúri nátiyjesinde erisilgen nátiyjeler, toplanǵan tájriybeler ulıwmalastırılıp, sol tiykarda elimizde bilimlendiriw sisteması jetlistirilip barıldı

c) Elimizde tolıq 12 jıllıq májbúriy bilimlendiriw engizildi

d) Dástúrdi ámelge asırıw ushın zárár bolǵan huqıqıy-normativ, ilimiy-metodikalıq, finanslıq-materiallıq árt - sharayatlar jaratıldı

III basqısh

e) 1-oktabr – «Oqıtıwshılar hám ustazlar kúni» dep belgilendi.

f) Milliy dástúr keń kólemde engizildi.

1)	2)	3)

5. Ózbekstan Respublikası Prezidentleri hám bilimlendiriw tarawında ámelge asırılǵan reformalardı sáykeslendiriń. (Qollaw - 21 ball).

1) Islam Karimov

2) Shavkat Mirziyoev

a) Mektepke dáslepki qádem qoyǵan birinshi klass oqıwshılarına Prezident sawǵası beriledi.

b) Multimedia oqıw ádebiyatları da jaratılıwı jolǵa qoyıldı.

c) 11 jıllıq bilimlendiriw engizildi.

d) Mektepke shekem bilimlendiriw ministrligi dúzildi.

e) Elimizde tolıq 12 jıllıq májbúriy bilimlendiriw engizildi

f) mektep bilimlendiriwin rawajlandırıw mámleketlik ulıwma milliy dástúri qabıl etildi.

1)	2)

6. Shet el mámleketi universitetlerin sáykeslendiriń. (Qollaw - 21 ball).

1) Ullı Britaniya

2) Rossiya

a) I.M. Gubkin atındaǵı neft hám gaz mámlektlik universiteti

b) INHA universiteti

c) Menejmentti rawajlandırıw institutı

3) Qubla Koreya

4) Italiya

d) Xalıq araralıq Vestminster universiteti

e) Turin politexnika universiteti

f) M.V. Lomonosov atındaǵı Moskva mámleketlik universiteti

1)	2)	3)	4)

7. Tómendegi Universitetlerdi olardıń tiykarǵı baǵdarları menen sáykeslendiriń. (Qollaw - 21 ball).

Vestminster universiteti

Turin politexnika universiteti

INHA universiteti

a) Ekonomika

b) Matematika hám psixologiya

c) Xabar texnologiyaları

d) Neft hám gaz

e) Ekonomika hám biznes

f) Texnika hám texnologiyalar

1)	2)	3)

8. Tómendegi sport jarısları kimler ortasında ótkeriliwi menen sáykeslendiriń. (Qollaw - 21 ball).

«Bárkamal áwlad»

«Universiada»

a) Ulıwmalıq bilimlendiriw mektepleri oqıwshıları ortasında

b) Áskerler ortasında

c) Orta arnawlı kásip-óner kollejleri studentleri ortasında

«Úmit nálsheleri»

d) Joqarı oqıw orınları hayal-qızları ortasında

e) Joqarı oqıw orınları studentleri ortasında

f) Máhálle jasları ortasında

1)	2)	3)

9. Tómendegi sportshılardı olar haqqındağı mağlıwmatlar menen sáykeslendiriń. (Qollaw - 21 ball).

Hasanbay Dostmatov

Shahram Ǵiyosov

Muratjan Ahmadaliyev

Ruslan Nuriddinov

a) 2016-jılğı Rio-de-Janeyro qalasında (Braziliya) bolıp ótken XXXI Olimpiada oyınlarında altın medal alıwğa miyasar boldı.

b) Sporttıń boks túri menen shuğıllanadı

c) Sporttıń awır atletika túri menen shuğıllanadı

d) Aziyanıń eń jaqsı sudyası dep tán alınğan.

e) 2016-jılğı Rio-de-Janeyro qalasında (Braziliya) bolıp ótken XXXI Olimpiada oyınlarında gúmis medaldı qolğa kiritti.

f) 2016-jılğı Rio-de-Janeyro qalasında (Braziliya) bolıp ótken XXXI Olimpiada oyınlarında bronza medalın qolğa kiritti.

1)	2)	3)	4)

10. Tómendegi jaslarğa tiyisli dúzilgen shólkemler menen olar haqqındağı mağlıwmatlardı sáykeslendiriń. (Qollaw - 21 ball).

1) «Kamalat» Jaslar jámiyetlik háreketi

a) Ózine júkletilgen wazıypalardı orınlay almağan hám haqıyqıy

b) 2017-jıl 30-iyun kúni dúzilgen.

c) 2001-jıl Tashkentte bolğan jaslar qurıltayında ózin ózi basqaratuğın mámleketlik emes, kommerciyalıq emes shólkem sıpatında dúzilgen.

2) «Ózbekstan Jaslar awqamı»

3) «Kamalat» fondı

d) Jaslardıń mashqalaları hámde baslamaların Ózbekstan Prezidentine tuwrıdan - tuwrı jetkeredi.

e) Jaslardıń mápleri hám zárırliklerin úyrenip, olardı qanaatlandırıw boyınsha dástúrler dúzgen shólkem.

f) Tiykargı maqseti jaslardı birlestiriw, jámiyette múnásip ornın iyelewge kómeklesiwden ibarat.

1)	2)	3)

5-soraw PIKIRLEW (22 ball) (11-klass Ózbekstan tariyxı)

1. Ne dep oylaysız? Ózbekstannıń qanday qolaylı hám qolaysız geosiyasiy imkaniyatları bar? (Pikirlew - 22 ball).

2. Ózbekstan sırtqı siyasatınıń prinsiplerin sanap beriń hám siz qaysı prinsipti ózgertken bolar edińiz? (Pikirlew - 22 ball).

3. Ne sebepten Ózbekstan Ǵárezsizliktiń dáslepki jıllarında Oraylıq Aziya mámleketleri menen doslıq, sheriklik qatnasıqların bekkemlewge itibar qaratqan? (Pikirlew - 22 ball).

4. Házirgi kúnde Ózbekstan Respublikası Evropa mámleketleri menen júritip atırǵan qatnasıqlarınıń unamlı hám keri táreplerin túsindiriń. (Pikirlew - 22 ball).

5. Aziyanıń jańa industrial rawajlanıp atırǵan mámleketlerine qaysı mámleketler kiredi? Sizińshe olar menen baylanıslar qansheli áhmiyetli? (Pikirlew - 22 ball).

6. Ne dep oylaysız, Ózbekstan BMShǵa aǵza bolıwı qansheli áhmiyetli? (Pikirlew - 22 ball).

7. Házirgi kúnde Aral mashqalasın sheshiw boyınsha qanday ilajlar ámelge asırılmaqta? Sizińshe Aral mashqalasın sheshiw ushın jáne neler qılınıwı kerek? (Pikirlew - 22 ball).

8. Ne sebepten ǴMDA mámleketleri menen ózara teń mápdar baylanıslardı bekkemlew Ózbekstan sırtqı siyasatınıń dıqqat orayında bolmaqta? (Pikirlew - 22 ball).

9. Ne dep oylaysız, ne ushın Ózbekstan Shanxay Birge islesiw Shólkemine aǵza bolǵan? (Pikirlew - 22 ball).

10. Shanxay Birge islesiw Shólkemindegi organlar hám strukturalardı sanap beriń. Olardıń funkciya hám wákillikleri nelerden ibarat? (Pikirlew - 22 ball).